(1) حزام مسنن نوع AC MC بتاره بارتفاع 50 mm يتراوح بخطوة تقريبية 8mm
للدورة الواحدة معرض لضغط محوري بشدة 2500N بواسطة عجلة آلية متحركة بالسير
110 mm و بارتفاع 55 mm ويتراوح بسرعة دورانية متغيرة بين 32 x 8 دورة
في الدقيقة لتحريك الجسم و KW
. القادرة على الجسم
علماً بأن: $\mu_s = 0.15$ و $\mu_k = 0.12$ و $\alpha = 15°$

(2) أوجد كفاءة الوصلة التي بين الصفائح الثلاثية؟
سماك الصفيح 6mm ، قطر البرشام 24 mm للوصلة البكالية
وصلة تراكبية ثنائية الصف بخطوة 65 mm
$\sigma_c = 180 N/mm^2$, $\tau \leq 90 N/mm^2$, $\sigma_c \leq 120 N/mm^2$

(3) الشكل يوضح أبعاد البراغي وسمك الحمل إذا عمل عليه 40 KN
وكان بزاوية 60° مع الأفق عكس اتجاه عقارب الساعة. الحمل والبراغي من نفس المادة وهما:
70 N/mm² في الشد و 50 N/mm² في القص و 105 N/mm² في الضغط

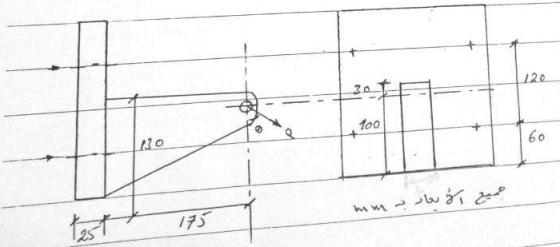

INFINIX HOT 9 PLAY
AI CAMERA

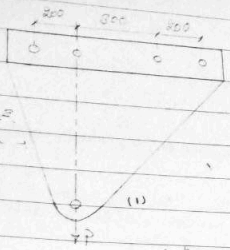

الحل :-

① الوصلة المحملة بالشكل (1) المطلوب إيجاد أقصى قوة P التي تحملها إذا علمت أن إجهاد القص المسموح به 100MPa ، علماً أن قطر كل البراغي متساوي 22mm .

② الشكل المبين في (1) يمثل وصلة تلحام على غير مركزي المطلوب تحديد أقصى قوة P التي تستطيع الوصلة تحملها علماً أن إجهاد القص المسموح به 140 MPa

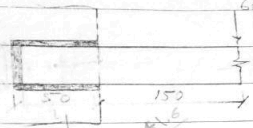

③ محور عمود تقوية طارئ 0.5m وقطره الداخلي 0.3m يستخدم لتدوير محور السفينة هو موجود، المحور مثبت على كرسي محمل بمسافة بينهما 5m ويتحمل طاقة مقدارها 600 kW عند 150 r.p.m في أقصى قوة محورية لمحور السفينة 500kN ، موزن المحور 70kN ، أوجد :

أقصى إجهاد قص متولد في المحور

علماً أن $k_m = 1.5$ ، $k_t = 1$

الامتحان النهائي لمقرر تصميم الات 1 — قسم الهندسة الميكانيكية – كلية الهندسة – جامعة مصراتة

الزمن: 3 ساعات

التاريخ: 2025/01/07

رقم القيد:.....

السوال الاول: (12درجات)

للرافعة الموضحة بالشكل (1) أوجد اجهاد الشد و اجهاد الضغط على المقطع x-x عندما تكون قيمة الحمل 17kN ، و أوجد أقصى اجهادات تتحملها البراغي؟

السوال الثاني: (12درجات)

للمحمل الموضح بالشكل (2) أوجد قطر البراشيم اذا علمت ان اقصى اجهاد قص يجب الا يتعدى 63Mpa ؟

السوال الثالث: (12 درجة)

صمم نابض ميزان لقياس أحمال من 0 الى 1000N و أن تكون أقصى ازاحة تساوي 80mm ، و ان تكون اكبر قيمة للقطر الخارجي في حالة القفل هي 25mm و العدد التقريبي لعدد اللفات هو 20 لفة، معامل الصلابة للنابض 85Gpa، و اوجد أقصى اجهاد قص يتحمله النابض ؟ افرض أن قطر سلك النابض يساوي(4mm).

السوال الرابع: (12 درجات)

عمود صلب قطره 52mm ملحوم على صفيحة مستوية كما في الشكل، فاذا كان S= 14mm ، أوجد أقصى اجهاد عمودي و أقصى اجهاد قص في اللحام؟

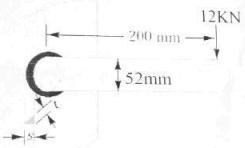

السوال الخامس: (12 درجات)

عمود دائري المقطع مثبت على كرسي محمل في نهايتيه كما موضح بالشكل(3)، يحمل بكرتين عند C،B تعملان تحت تأثير الشد بواسطة سيور. العمود مصنوع من حديد الزهر (ASTM Grad 25 Cast iron) مواصفاته الميكانيكية كالتالي:

$$\sigma_{cc} = 97 \times 10^3\ Psi\ , \sigma_{ut} = 27 \times 10^3\ Psi\ , \sigma_{yt} = 16 \times 10^3\ Psi$$

أوجد قطر العمود؟ إستخدم معامل أمان 2.8

INFINIX HOT 9 PLAY
AI CAMERA

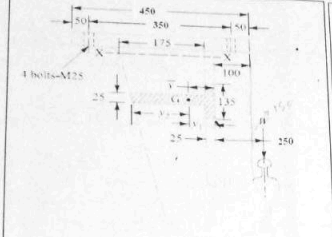

All dimensions in mm.

شكل (1)

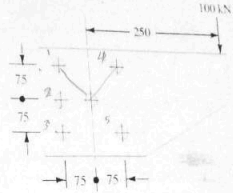

All dimensions in mm.

شكل (2)

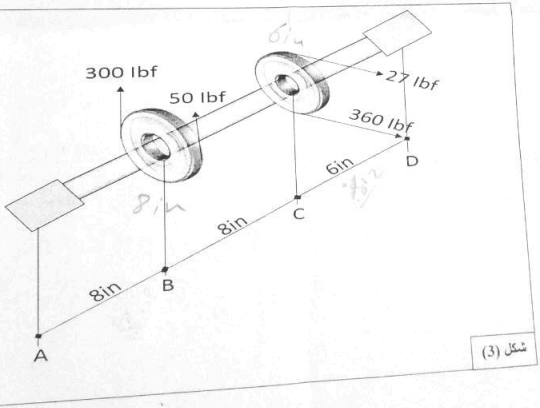

شكل (3)

INFINIX HOT 9 PLAY
AI CAMERA